绝密★启用并使用完毕前

2011年普通高等学校招生全国统一考试（山东卷）

文科综合

本试卷分第Ⅰ卷和第Ⅱ卷两部分，共12页。满分240分。考试用时150分钟。答题前，考生务必用0.5毫米黑色签字笔将自己的姓名、座号、准考证号、县区和科类填写在试卷和答题卡规定的位置。考试结束后，将本试卷和答题卡一并交回。

第Ⅰ卷（必做，共100分）

注意事项：

1. 第Ⅰ卷共25小题，每小题4分，共100分。在每小题给出的四个选项中，只有一项是最符合题目要求的。
2. 每小题选出答案后，用2B铅笔把答题卡上对应题目的答案标号涂黑。如需改动，用橡皮擦干净后，再选涂其他答案标号。不涂在答题卡上，只答在试卷上不得分。

水稻是亚洲主要的粮食作物，病虫害防治是保障其高产稳产的重要措施。完成1～2题。

1. 实时监测和预报水稻病虫害发情所运用的地理信息技术是
   A. 全球定位系统、数字地球　　B. 遥感技术、地理信息系统
   C. 地理信息系统、数字地球　　D. 遥感技术、全球定位系统
2. 表1为2007年亚洲四个国家水稻生产情况统计表。甲、乙、丙、丁代表的国家依次是

表1

国家	种植面积（万公顷）	单位面积产量（吨/公顷）	总产量（万吨）
甲	4400	2.14	9416.00
乙	168	4.36	732.48
丙	2950	4.23	12478.50
丁	1036	1.80	1864.80

   A. 印度、日本、中国、泰国
   B. 印度、泰国、中国、日本
   C. 中国、泰国、印度、日本
   D. 中国、日本、印度、泰国

图1为我国北方某区域地貌景观和地质剖面示意图。读图回答3～4题。

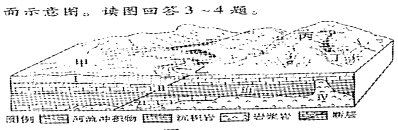

图1

3. 下列土地整治方式中合理的是
   ①甲处平整土地，提高土地质量
   ②乙处修建护坡堤，防止岸坡侵蚀
   ③丙处修建梯田，增加耕地面积
   ④丁处修建挡土坝，拦截泥沙以淤地
   A. ①②　　B. ②③
   C. ③④　　D. ①③
4. 图中Ⅰ、Ⅱ、Ⅲ、Ⅳ处主要由内力作用形成的是
   A. Ⅰ、Ⅱ　　B. Ⅲ、Ⅳ　　C. Ⅰ、Ⅲ　　D. Ⅱ、Ⅳ

图2为某区域冬季北纬45°沿经线方向的气压剖面图。在一就业生产的船上，船员在图中①处看到了海上日出景象，此时为北京时（中时区区时）4时。读图回答5～6题。

5. 下列四幅图中，与①处当日日出时刻相符的是

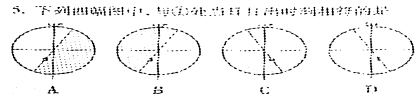

（注：阴影部分表示夜半球，白色部分表示昼半球，●表示太阳位置）

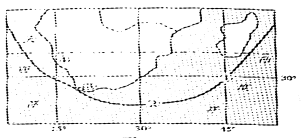

图2

6. 下列叙述正确的是
   A. ①处该船逆水航行
   B. ②处风平浪静
   C. ③地河流正值丰水期
   D. ④地森林密布

图3为我国东部地区甲、乙两城市三个部分常住人口密度分布图，图中横虚表示2000年城市商务活动对高度。读图回答7～8题。



图3

7. 下列说法正确的是
   A. 1982～2000年，两城市的市中心常住人口密度变化特征相同
   B. 1982～2000年，两城市的城郊区常住人口密度变化特征不同
   C. 2000年甲城市的人口规模比乙城市的小
   D. 2000年乙城市的服务范围比甲城市的小
8. 关于2000年两城市功能区分布的推断，最有可能的是
   ①甲城市的中心商务区位于M处　　②乙城市的中心商务区位于P处
   ③甲城市的卫星城位于N处　　④乙城市的卫星城位于Q处
   A. ①③　　B. ②③　　C. ①④　　D. ②④

9. 钱穆在评论中国古代某制度时说，它"可以培情全国人民对政治之兴味……可以团结全国各地域于一个中央之统治"。这一制度是
   A. 郡县制　　B. 察举制
   C. 科举制　　D. 行省制
10. 图4描绘了汉代农民使用四两犁耕作的场景。它反映出当时
   A. 开始使用铁器
   B. 注重精耕细作
   C. 尚未推广牛耕
   D. 雇佣关系盛行

图4

11. 表2为中国工业发展初期（1872－1911年）设立的厂矿数量统计表。其中，纺织业的数量最有可能是

表2

行业	矿冶业	机器业	纺织业	食品工业	其他工业
数量（家）	72	3	?	100	153

   A. 2　　B. 31　　C. 73　　D. 193
12. 1918年，陈独秀曾撰文严厉指责义和团野蛮、保守、盲目排外和传播迷信；1924年，他又认为义和团是反对帝国主义的爱国者。促成这一转变的主要原因是
   A. 十月革命的影响
   B. 民族主义的高涨
   C. 民主主义成为时代主流
   D. 社会性质发生变化
13. 图5是1980年12月我国沿海某市工商行政管理局颁发的一份营业执照。它反映出



图5

   A. 社会主义市场经济体制确立
   B. 城市经济体制改革全面展开
   C. 所有制形式趋向多样化
   D. 沿海开放城市带动了经济发展
14. "想参加陪审团的公民按先后秩序依次进入，直到既定的人数到齐为止……开庭审理前，陪审员对案件一无所知，他们了解整个案情、进行判决的唯一依据是诉讼人的演说陈述。"古雅典的这一制度
   A. 体现了其民主的运作方式　　B. 表明公民只享有形式上的平等
   C. 保证了案件判决的公平公正　　D. 为后世提供了完备的司法程序

15. 图6为1600～1913年西班牙、荷兰、英国和美国（百姓民地时代起）人均国内生产总值变化曲线图。其中，代表英国的曲线是
   A. ①
   B. ②
   C. ③
   D. ④

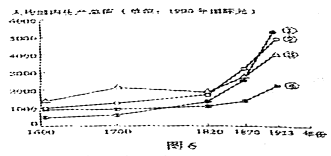

图6

16. 1964年4月，77个发展中国家在日内瓦发表《七十七国联合宣言》，提出了建立平等互利的国际经济新秩序的要求。这表明
   A. 世界格局呈现多极化趋势　　B. 经济区域集团化进一步发展
   C. 资本主义世界经济体系瓦解　　D. 和平与发展成为时代主题
17. "城镇居民人均可支配收入和农民人均纯收入年均增长10%，争取农民收入实现更高增幅"是山东省"十三五"时期经济社会发展的一个重要目标。为实现这一目标，要求
   ①提高经济效率，实现国民经济健康发展
   ②提高居民收入在国民收入分配中的比重
   ③实行农产品政府定价政策，提高农民收入
   ④增加财政投资，支持农村基础设施建设
   A. ①③　　B. ①④　　C. ②④　　D. ②③
18. 下列四幅图描述了某商品的价格（P）、需求量（D）、价值量（V）以及生产该商品的社会劳动生产率（L）之间的关系。

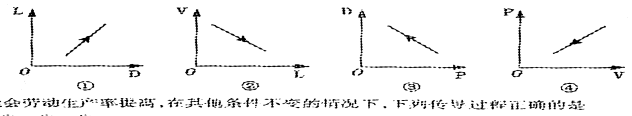

   若社会劳动生产率提高，在其他条件不变的情况下，下列传导过程正确的是
   A. ①→③→④　　B. ②→①→④
   C. ①→②→④　　D. ②→①→③
19. 2011年，国家旅游局推出"中华文化游"主题旅游年活动。主要围绕中国的传统文化和多元民族文化，将中国的旅游资源推向世界。这一活动有利于
   ①扩大中华文化的国际影响力　　②丰富中国传统文化基本内涵
   ③增强民族文化的多元性特征　　④促进中外文化的交流与借鉴
   A. ①③　　B. ①④　　C. ②③　　D. ③④

山东水利职业学院

阳光海岸　品牌水院

●全国水利高等职业教育示范院校　●山东省首批高职院校人才培养工作水平评估优秀院校　●山东省高校就业工作评估优秀院校
●山东省德育工作优秀高校　●山东省高校文明校园　●山东省高校体育优秀单位　●山东省高校公寓管理工作先进单位

山东水利职业学院是一所省属公办全日制普通高校，是以水利和工科为品牌优势的综合性院校。学院前身创建于1958年，2002年经山东省人民政府批准、教育部备案，成为一所省属、公办、全日制普通高等院校，隶属于山东省水利厅、教育厅。2004年在山东省人事厅组织的高校就业工作评估中被评为优秀；2005年在山东省教育厅组织的全省高职高专院校人才培养工作水平评估中获得优秀；2006在山东省委高校工委组织的高校德育与校园文明建设工作评估中获得"双优"，分别被授予"德育工作优秀高校"和"文明校园"荣誉称号；2007年被评为"山东省高校体育优秀单位"；2008年荣获"全省高校公寓管理工作先进单位"称号；2008年被国家水利部批准为"全国水利高等职业教育示范院校"；2009年学院被建设部、教育部确定为"建设行业技能型紧缺人才培养基地"，水利工程和机电一体化技术专业被山东省教育厅确定为职业教育"十、百、千工程"建设方案示范专业，水利工程、建筑工程技术、电子信息工程、机电一体化技术专业和水利水电工程管理专业被山东省教育厅确定为山东省高等学校特色专业，水利工程技术和建筑工程技术专业是全国水利示范建设专业。

学院地处以"蓝天、碧海、金沙滩"闻名的新兴海洋特色城市山东省日照市，校园毗邻日照山海天旅游度假区，依山傍海，环境优美，气候宜人，地理位置优越。

学院占地面积94万平方米，校舍总建筑面积34.08万平方米，其中教学及行政辅助用房面积为20.42万平方米，学生公寓16.95万平方米，教学仪器设备总值7698万元，图书馆藏书68.25万余册，期刊800种，建设有78个设备先进的校内实验实训场，建筑工程技术实训基地是中央财政支持的职业教育实训基地建设项目；机电一体化实训中心是省财政支持的职业教育实训基地建设项目。学院依托中国水利水电第十三工程局等水利系统企事业单位以及山东公路建设集团、日照港集团、五征集团、日照钢铁集团等大型企业集团建立了141个功能完善的校外实训基地。

学院现有专任教师590人，具有副教授及以上高级专业技术职务的234人，专任教师中具有硕士以上学位的166人，专任教师队伍中双师型比例达53%，厅级以上专业技术拔尖人才7人，5人入选山东省水利厅"3131人才培养工程"，省级教学团队2个，先后承担国家、省、部、厅级科研课题和横向课题200余项，已获国家科技进步二等奖1项，省部级科技进步奖14项，地厅级科技进步奖76项。学院教师每年发表论文300余篇，其中中文核心期刊比例30%以上，EI、SCI收录比例达10%，每年出版论著、教材近100部，面向社会开展生产技术服务100多项。

学院现有专业49个，涵盖水利、土建、制造、交通运输、资源开发与测绘、材料与能源、电子信息、财经、环保气象与安全、旅游、文化教育、艺术设计传媒12个专业大类。

学院始终坚持"以人为本，以水为魂"的办学理念，准确把握"立足水利、面向社会，办好行业性区域性特色学院；校企合作、工学结合，培养高素质技能型专门人才"的办学定位，秉承"上善若水"的品格，敞开"海纳百川"的胸怀，专注内涵发展，打造核心竞争力。

学院不断加强对就业工作的统筹力度，建立了规范化的毕业生就业工作机制，构建了完善的职业发展规划教育体系，为学生的终生职业发展提供充足动力。学院坚持多措并举，注重实效，不断提高学生顶岗实习后的就业比例，促进毕业生全面高质量就业。学院以"联通未来青春创业社"为平台，突出"一个核心"，实施"两个融入"，即以培养学生自我创造力为核心，把创业成功案例融入专业课程教学中，把创业能力培养融入"大学生职业生涯规划"和"大学生就业指导"等校本课程中，通过全方位、立体化的创业教育，构建完善了一年级学生有目标、二年级学生有特长、三年级学生有行动的创业人才成长体系。

全力打造以水利和工科为品牌优势的特色名校，在功能特色上要成为高等技术人才的摇篮、职业能力开发的平台、产学研一体化的基地；在办学层次上，以三年制高等职业技术教育为主体，大力发展继续教育和技术培训，积极推进国内外多种形式的联合办学；在培养目标上，通过校企合作和工学结合，不断创新人才培养模式，培养专业基础扎实、综合素质高、实践能力强，在生产、建设、管理、服务一线工作的高素质技能型人才。

学院2011年国家计划内招生4000名，其中山东省内普通文理2780名，艺术文理240名，对口高职300名。

更多详细情况欢迎登录以下网站查询：

山东水利职业学院招生信息网
http://www.wadwrp.com/zajyzx/
教育部阳光高考信息平台
http://gaokao.chai.com.cn/z/gaozhi/
山东招生考试院网站
http://www.wadzsgov.cn/

学院地址：山东省日照市学苑路677号　邮政编码：276826　招生热线：0633-8170088